МІНІСТЕРСТВО ОСВІТИ І НАУКИ УКРАЇНИ
НАЦІОНАЛЬНИЙ АВІАЦІЙНИЙ УНІВЕРСИТЕТ
Навчально-науковий інститут неперервної освіти
Кафедра базових і спеціальних дисциплін

РОБОЧИЙ ЗОШИТ З ФІЗИКИ

слухача Підготовчого відділення

Прізвище_____

Ім'я_____

Група_____

Київ 2018

УДК 53(076.5)
ББК

Автори-укладачі: *Н. П. Муранова, О. О. Бруяка, В. А. Свентицька*

Рецензент: *Г.І. Костюк* – Академік Міжнародної академії наук і інноваційних технологій, АІНУ та АНТКУ, професор, д.т.н. (Національний аерокосмічний університет ім. М. Є. Жуковського «ХАІ»);

Затверджено методично-редакційною радою Національного авіаційного університету (протокол № 4 від 4.12.2017 р.).

Муранова Н. П.
Робочий зошит з фізики слухача підготовчого відділення / Н. П. Муранова, О. О. Бруяка, В. А. Свентицька. – К. : НАУ, 2017. – с.

Робочий зошит створений з метою допомогти абітурієнтам узагальнити та систематизувати свої знання, підготуватися до Зовнішнього незалежного оцінювання з фізики.

Для слухачів Підготовчого відділення Навчально-наукового інституту неперервної освіти, а також старшокласників, абітурієнтів, учителів фізики. Зошит містить достатню кількість тестових завдань та задач різних рівнів складності, більшість з яких наведено у форматі зовнішнього незалежного оцінювання.

ЗМІСТ

	ВСТУП …….……..…….....	4
1.	МЕХАНІКА. ОСНОВИ КІНЕМАТИКИ ……..……	5
	Основні поняття теми …….....…...	5
	Рекомендована література ……...….....	5
	Питання для теоретичного опрацювання ……...……..	5
	Завдання для самостійного розв’язання І рівня…….……...	6
	ІІ рівень. Завдання на встановлення відповідності ……..…	12
	ІІІ рівень. Завдання відкритої форми ……..…….	14
2.	ОСНОВИ ДИНАМІКИ. ЗАКОНИ ЗБЕРЕЖЕННЯ В МЕХАНІЦІ……..…..….	18
	Питання для теоретичного опрацювання ……..…….....	26
	Вступні і пробні завдання ……..	19
	Завдання для самостійного розв’язку І рівня ……..……	21
	ІІ рівень. Завдання на встановлення відповідності…….…….	29
	ІІІ рівень. Завдання відкритої форми ……..……..…...	31
	Список літератури …….....……..……..……..	38

ВСТУП

Метою робочого зошита є допомога слухачам в організації їх самостійної роботи під час вивчення дисципліни «Фізика». Самостійна робота є важливою складовою навчального процесу, яка включає в себе:

1) вивчення лекційного матеріалу та ознайомлення з рекомендованою літературою;
2) розв'язування задач і тестів.

Робочий зошит містить матеріал, який відповідає чинній програмі з фізики Міністерства освіти і науки України.

Запропоновано завдання трьох рівнів складності різних форм, а саме: завдання з вибором правильної відповіді, завдання на встановлення відповідності (логічна пара) та завдання відкритої форми з розгорнутою відповіддю.

У завданнях відкритої форми розв'язання задач рекомендується подати в такому вигляді:

– записати умову задачі у скороченому вигляді відповідно до вимог міжнародної системи вимірювання СІ;
– виконати рисунок;
– розв'язати задачу у загальному вигляді, отримавши розрахункову формулу, яка вміщує задані в умові величини, фізичні константи та табличні дані;
– перевірити одиниці вимірювання шуканої величини за розрахунковою формулою;

обчислити числове значення шуканої величини та оцінити достовірність отриманого результату.

Наприкінці зошита наведено відповіді до задач відкритої форми. Це дасть змогу слухачам реально оцінити свої знання з предмета.

1. МЕХАНІКА. ОСНОВИ КІНЕМАТИКИ

Мета. Опанування слухачами підготовчих курсів наукових фактів і фундаментальних ідей, усвідомлення ними суті понять і законів, принципів і теорій, які дають змогу пояснити перебіг фізичних явищ і процесів, з'ясувати їх закономірності, характеризувати сучасну фізичну картину світу. Відпрацювання навичок виконання завдань різної форми та різного ступеня складності для якісної підготовки слухачів підготовчих курсів до проходження зовнішнього незалежного оцінювання відповідно до вимог Українського центру оцінювання якості освіти.

Знати:
- основну задачу механіки;
- види механічного руху;
- тіло відліку, систему відліку, матеріальну точку;
- траєкторію руху, шлях, переміщення;
- відносність руху.

Уміти:
- аналізувати графіки залежностей між фізичними величинами, робити висновки;
- правильно визначати та використовувати одиниці фізичних величин;
- використовувати теоретичні знання для розв'язування якісних та комбінованих задач;
- розв'язувати розрахункові задачі.

Основні поняття теми

Механічний рух. Основна задача механіки. Матеріальна точка. Система відліку. Відносність механічного руху. Траєкторія руху. Рівномірний прямолінійний рух. Шлях і переміщення. Рівняння рівномірного прямолінійного руху. Швидкість руху. Закон додавання швидкостей. Графіки залежностей кінематичних характеристик від часу. Нерівномірний рух. Середня та миттєва швидкості. Прискорення. Рівняння рівнозмінного прямолінійного руху. Вільне падіння тіл. Рух тіла, кинутого горизонтально. Рух тіла, кинутого під кутом до горизонту. Рівномірний рух матеріальної точки по колу. Період і частота обертання. Лінійна і кутова швидкості. Зв'язок лінійних і кутових характеристик. Доцентрове прискорення.

Рекомендована література

1. *Кузнєцова О. Я.* Фізика : навч. посіб. / О. Я. Кузнєцова, Н. П. Муранова. – К. : Вид-во Нац. авіац. уні-ту «НАУ-друк», 2008. – Ч. 1. – 2008. – С. 1-100. – (МОН України).

2. *Кузнєцова О. Я.* Фізика. Теорія і практика : навч. посіб. / О. Я. Кузнєцова, Н. П. Муранова. – К. : Книжкове вид-во НАУ, 2007. – С. 1-60.

Питання для теоретичного опрацювання

1. Чи можна вважати матеріальною точкою снаряд для розрахунку: а) дальності польоту; б) форми снаряда, яка б забезпечувала зменшення опору повітря?

_____

_____

2. Спортсмен пливе вздовж берега річки проти течії. Чи може він бути нерухомим відносно берега?

_____

3. Вітер дме в тому ж напрямку, у якому рухається потяг. Швидкість вітру дорівнює швидкості потяга. Яке положення займає стовп диму, що виходить із труби тепловоза? _____

4. Іноді групи літаків одночасно виконують фігури вищого пілотажу, зберігаючи заданий стрій. Чи рухаються літаки один відносно одного? Що можна вважати тілом відліку для групи літаків?

_____

5. Який вигляд має траєкторія руху:

а) центра колеса велосипеда під руху по прямолінійній дорозі?_____

б) точки обода колеса відносно його осі?_____

в) точки обода колеса відносно дороги?_____

6. Можна вважати поступальним рух:

літака під час пікірування?_____

колеса, що котиться по дорозі?_____

пропелера вертольота відносно землі?_____

санчат, що скочуються з рівної гірки?_____

7. Чому на склі рухомого вагона навіть у тиху погоду дощові краплі залишають не вертикальні, а похилі сліди?_____

_____

8. Чому на велосипеді легко зберігати рівновагу під час їзди і важко, коли велосипед стоїть?_____

_____

Завдання для самостійного розв'язання І рівня.

1. Визначте ціну поділки шкали лінійки, зображеної на рисунку.

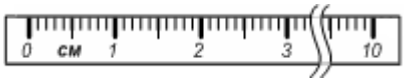

А 10 см на поділку; **Б** 1 см на поділку; **В** 0,5 см на поділку; **Г** 0,1 см на поділку.

2. Укажіть визначення траєкторії:

А лінія будь-якої форми;
Б пряма лінія;
В уявна лінія, яку описує матеріальна точка під час руху;
Г лінія, яка сполучає початкове і кінцеве положення матеріальної точки.

3. У якому із прикладів Місяць можна вважати матеріальною точкою?

А вибір місця посадки на Місяць космічного корабля;
Б визначення гравітаційної сили, що діє між Місяцем і Сонцем;
В вивчення рельєфу поверхні Місяця;
Г розрахунок тривалості сонячного затемнення.

4. Укажіть тіло, яке рухається рівномірно прямолінійно в напрямку осі 0*x*:

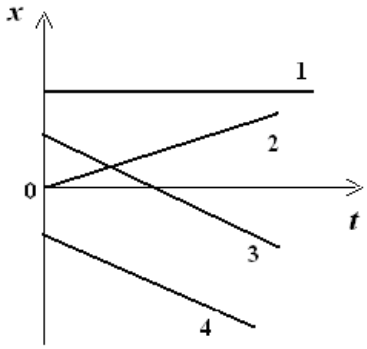

А 1; **Б** 2; **В** 3; **Г** 4.

5. Укажіть тіло, швидкість якого більша:

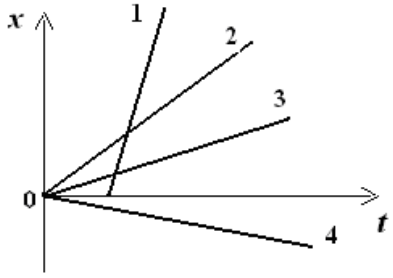

А 1; **Б** 2; **В** 3; **Г** 4.

6. Автомобіль рівномірно рухається по прямолінійному шосе. Які з наведених нижче частин автомобіля рухаються поступально?

1 Вітрове скло. **2** Працюючі «двірники». **3** Колеса. **4** Стрілка спідометра

А 2; 4; **Б** 1; 4; **В** 1; 3; **Г** 1; 2.

7. Рух велосипедиста в СІ описується рівнянням $x_1 = 25 + 10t$, а рух собаки – рівнянням $x_2 = -35 + 12t$. Укажіть правильне твердження.

А Собака біжить назустріч велосипедисту.

Б Собака рухається відносно велосипедиста зі швидкістю 22 м/с.

В Велосипедист наздоганяє собаку.

Г Тіла зустрінуться через 30 с.

8. За який час потяг проїде тунель довжиною 200 м, якщо довжина потяга 100 м, а швидкість руху 36 км/год?

А 30 с; **Б** 25 с; **В** 10 с; **Г** 20 с.

9. З першого міста в друге вийшов турист. Коли він пройшов 27 км, услід за ним виїхав автомобіль, швидкість якого в 10 разів більша за швидкість туриста. До другого міста турист та автомобіль прибули одночасно. Яка відстань між містами?

А 33 км; **Б** 30 км; **В** 32 км; **Г** 35 км.

10. Плавець пливе проти течії річки. Його швидкість відносно води 2,1 м/с, а швидкість течії річки 0,6 м/с. Визначте швидкість плавця відносно берега:

А 0,5 м/с; **Б** 2,7 м/с; **В** 1,5 м/с; **Г** 1,7 м/с.

11. Визначте швидкість винищувача відносно палуби авіаносця в момент зльоту з носа корабля, якщо авіаносець рухається зі швидкістю 8 м/с відносно берега, а винищувач – горизонтально зі швидкістю 70 м/с відносно берега.

А 78 м/с; **Б** 62 м/с; **В** 70 м/с; **Г** 42 м/с.

12. Пасажир електрички помітив, що зустрічний вантажний потяг проїхав повз нього за 10 с. Якою є довжина потяга, якщо швидкість електрички – 72 км/год, а швидкість вантажного потяга – 54 км/год?

А 720 м; **Б** 540 м; **В** 350 м; **Г** 180 м.

13. Швидкість руху човна відносно води у 2 рази більша від швидкості течії. У скільки разів довше човен пливе між двома пунктами проти течії, ніж за течією?

А 2; **Б** 3; **В** 1,5; **Г** 5.

14. Колона спортсменів завдовжки 210 м рухається зі швидкістю 2 м/с. Тренер, що перебуває у хвості колони, посилає велосипедиста з дорученням до голови колони. Швидкість велосипедиста – 5 м/с. За який час велосипедист, виконавши доручення, повернеться до тренера?

А 80 с; **Б** 90 с; **В** 40 с; **Г** 100 с.

15. Укажіть характер залежності швидкості рівнозмінного прямолінійного руху від часу:

А пряма пропорційність;
Б обернена пропорційність;
В лінійна функція;
Г квадратична функція.

16. Рух тіла описано рівнянням $x = 4 - 3t + 2t^2$, де всі величини виражено в одиницях SI. Визначте проекцію швидкості тіла на вісь *OX* через 2 с після початку руху.

А - 6 м/с; **Б** 5 м/с; **В** 6 м/с ; **Г** 8 м/с.

17. (ЗНО-2011). На рисунку зображено графіки залежності проекції швидкості v_x чотирьох тіл (А, Б, В, Г), що рухаються вздовж осі *OX*, від часу *t*. Укажіть тіло, яке пройшло найбільший шлях за 6 с.

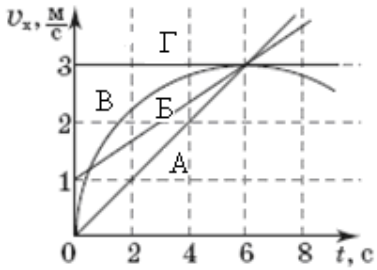

А тіло А; **Б** тіло Б; **В** тіло В; **Г** тіло Г.

18. (ЗНО-2014). На рисунку зображено графік залежності проекції швидкості v_x автомобіля від часу t під час прямолінійного руху. Визначте інтервал часу, коли модуль прискорення є мінімальним.

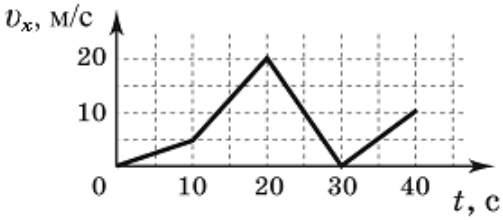

А від 30 до 40 с; **Б** від 20 до 30 с; **В** від 10 до 20 с; **Г** від 0 до 10 с.

19. Під час аварійного гальмування автомобіль, який рухався зі швидкістю 72 км/год, зупинився через 5 с. Знайти гальмівний шлях.

А 45 м; **Б** 100 м; **В** 50 м; **Г** 75 м.

20. Координата тіла змінюється за законом: $x = -4 + 3t - 0{,}2t^2$. Визначте рівняння швидкості тіла:

А $\upsilon_x = 3 - 0{,}2t;$ **Б** $\upsilon_x = -4 - 0{,}2t;$ **В** $\upsilon_x = -3 - 0{,}2t;$ **Г** $\upsilon_x = 3 - 0{,}4t.$

21. Визначте, скільки тривав рівномірний рух тіла та яке переміщення тіла за весь час руху:

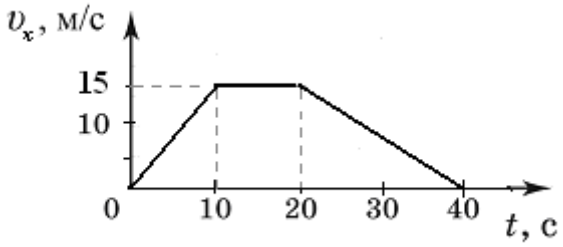

А 10 с; 350 м; **Б** 20 с; 320 м; **В** 40 с; 315 м; **Г** 10 с; 375 м.

22. Рух тіла описується рівнянням $x = -5 + 2t + 9t^2$, де всі величини виражені в одиницях SI. Визначте прискорення, з яким рухається тіло.

А 8 м/с^2; **Б** 19 м/с^2; **В** 9 м/с^2; **Г** 18 м/с^2.

23. Швидкість руху тіла змінюється за законом: $\upsilon_x = -10 + 0{,}4t$. Визначте, у який момент часу швидкість тіла дорівнюватиме 2 м/с.

А 30 с; **Б** 200 с; **В** 300 с; **Г** 20 с.

24. Першу половину шляху автомобіль проїхав зі швидкістю 80 км/год, а другу – зі швидкістю 40 км/год. Знайти середню швидкість автомобіля на всьому шляху.

А 53 км/год; **Б** 55 км/год; **В** 60 км/год; **Г** 150 км/год.

25. Велосипедист проїхав першу ділянку 2 км за 10 хв, а другу завдовжки 7 км – за 20 хв. Середня швидкість велосипедиста на всьому шляху дорівнює:

А 10 м/с; **Б** 0,5 км/хв; **В** 0,2 км/хв; **Г** 5 м/с.

26. Для прямолінійного руху за графіком залежності проекції швидкості тіла від часу визначте графік залежності проекції прискорення цього тіла від часу.

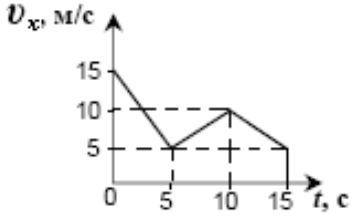

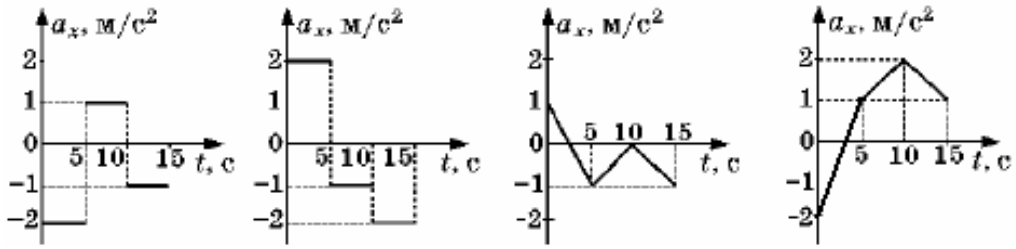

А **Б** **В** **Г**

27. Чому дорівнює відношення шляхів, що пройдені тілом за 1 с та за 3 с після початку вільного падіння?

А $\frac{1}{2}$; **Б** $\frac{1}{9}$; **В** $\frac{1}{3}$; **Г** $\frac{1}{4}$.

28. Тіло кинули з початковою швидкістю 10 м/с під кутом 60° до горизонту. Швидкість тіла в найвищій точці траєкторії дорівнює:

А 5 м/с; **Б** 1 м/с; **В** 10 м/с; **Г** 4,9 м/с.

29. Укажіть напрямок прискорення під час рівномірного руху тіла по колу:

А по хорді;
Б від центра кола;
В до центра кола;
Г по дотичній до кола у напрямку руху.

30. Закінчіть речення: Періодом рівномірного руху по колу називають…

А увесь час руху;
Б час одного оберту;
В кількість обертів за одиницю часу;
Г кількість обертів за 2π с.

31. Правильно продовжте твердження: переміщення тіла, що обертається, за період дорівнює:

А довжині кола; **Б** радіусу кола; **В** нулю; **Г** діаметру кола.

32. Тіло рухається по колу за годинниковою стрілкою. Укажіть напрямок лінійної швидкості в точці А.

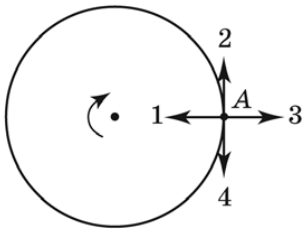

А 1; **Б** 2; **В** 3; **Г** 4.

33. Здійснюючи поворот, автомобіль проїхав чверть кола радіусом R. У скільки разів модуль переміщення автомобіля менший за пройдений ним шлях?

А 1,11; **Б** 1,41; **В** 1,5; **Г** 1,57.

ІІ рівень. Завдання на встановлення відповідності

1. Установіть відповідність між характером зміни швидкості під час руху та прикладом руху тіла руху.

1. Швидкість не змінюється за напрямком і модулем	**А** Кулька коливається на нитці
2. Швидкість не змінює напрямку, збільшується за модулем	**Б** Автобус гальмує перед зупинкою
3. Швидкість не змінюється за модулем, змінює напрямок	**В** Бульбашка повітря спливає з дна озера
4. Швидкість змінюється за напрямком і модулем	**Г** Яблуко падає з дерева на землю
	Д Штучний супутник Землі рухається по геостаціонарній орбіті

2. Установіть відповідність між рухом тіла та напрямком прискорення.

Рух тіла	**Напрямок прискорення**
1. Падіння яблука з дерева в безвітряну погоду	**А** Протилежно до напрямку швидкості руху тіла
2. Рух м'яча, який летить угору під кутом до горизонту	**Б** Під тупим кутом до напрямку швидкості руху тіла
3. Гальмування автомобіля без зміни напрямку руху	**В** У напрямку швидкості руху тіла
4. Рух штучного супутника Землі по коловій орбіті	**Г** Під гострим кутом до напрямку швидкості руху тіла
	Д Під прямим кутом до напрямку швидкості руху тіла

3. Установіть відповідність графіків руху та рівнянь руху.

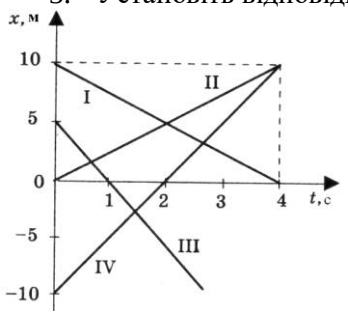

1 I	**А** $x = 2{,}5t$
2 II	**Б** $x = -10 + 5t$
3 III	**В** $x = 10 - 2{,}5t$
4 IV	**Г** $x = 10 + 2{,}5t$
	Д $x = 5 - 5t$

4. Рух двох тіл у SI описується рівняннями $x_1 = 600 - 2t;\ x_2 = 300 + t.$ Установіть відповідність між фізичною величиною та її числовим значенням у SI.

1 Час зустрічі	**А** 100
2 Координата тіл при зустрічі	**Б** 300
3 Відстань між тілами через 50 с	**В** 400
4 Момент часу, коли відстань між тілами дорівнюватиме 600 м	**Г** 200
	Д 150

5. Човен перепливає річку завширшки 240 м у напрямку, перпендикулярному до течії. Швидкість течії становить 2 м/с. Течія знесла човен на 180 м. Установіть відповідність між фізичною величиною та її числовим значенням у SI.

1 Швидкість руху човна відносно води	**А** 90
2 Швидкість руху човна відносно берега	**Б** 2,67
3 Час переправи	**В** 300
4 Переміщення човна відносно берега	**Г** 120
	Д 3,33

6. Човен переплив через річку завширшки 200 м найкоротшим шляхом. Швидкість човна відносно води дорівнює 5 м/с. Швидкість течії – 3 м/с. Установіть відповідність між фізичною величиною та її числовим значенням у SI.

1 Час переправи	**А** 8
2 Швидкість руху човна відносно берега	**Б** 4
3 Кут (у градусах) між напрямком швидкості човна і берегом	**В** 53

4 Переміщення човна відносно води

Г 250
Д 50

7. Установить відповідність між рівнянням руху тіла та рівнянням проекції швидкості.

1 $x = 2 + 4t - t^2$
2 $x = 2 + 4t$
3 $x = 2 - 4t - t^2$
4 $x = 2 - 4t - t^2$

А $\upsilon_x = -4 - 2t$
Б $\upsilon_x = 4$
В $\upsilon_x = -4 + 2t$
Г $\upsilon_x = 4 - 2t$
Д $\upsilon_x = 2 - 2t$

8. Установіть відповідність між описом руху тіла в площині *Oxy* та рівняннями цього руху.

1 Рівномірний рух уздовж осі *Ox*
2 Рух по параболі в площині *Oxy*
3 Рівноприскорений рух уздовж осі *Oy*
4 Тіло нерухоме

А $x = 4 - 2t;\ y = 0$
Б $x = 0;\ y = 2$
В $y = 2x^2 - 3$
Г $x = 0;\ y = 2 + 4t - t^2$
Д $x = 4 - 2t + t^2;\ y = 0$

9. Швидкість потяга зменшилась від 54 км/год до 32,4 км/год на шляху 720 м. Установіть відповідність між фізичною величиною та її числовим значенням у SI.

1 Модуль прискорення потяга
2 Час гальмування
3 Швидкість потяга у момент, коли він проїхав 625 м
4 Швидкість потяга через 30 с після початку гальмування

А 10
Б 30
В 60
Г 12
Д 0,1

10. Тіло падає без початкової швидкості впродовж 5 с. Установіть відповідність між фізичною величиною та її числовим значенням у SI.

1 Висота, з якої падало тіло
2 Швидкість, якої набуло тіло, пройшовши 5 м
3 Швидкість у момент удару об землю
4 Шлях за останню секунду падіння

А 50
Б 100
В 125
Г 45
Д 10

11. Камінь, кинутий вертикально вгору, піднявся на висоту 45 м. Установіть відповідність між фізичною величиною та її числовим значенням у SI.

1 Час підняття
2 Початкова швидкість
3 Шлях за першу секунду руху
4 Шлях каменя за останню секунду підняття

А 20
Б 25
В 3
Г 30
Д 5

12. Установіть відповідність між описом руху тіла та відповідальною йому ділянкою графіка.

1 Рівномірний рух у напрямку осі *Ox*
2 Спокій
3 Рівноприскорений рух у напрямку осі *Ox,* за якого модуль швидкості зростає
4 Рівноприскорений рух у напрямку, протилежному до осі *Ox*

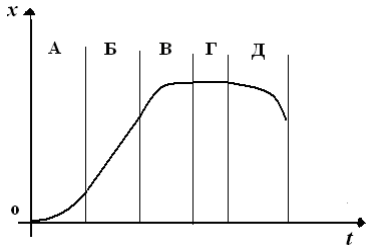

13. Довжина лопатей вентилятора 20 см, лінійна швидкість кінців лопатей 2,5 м/с. Установіть відповідність між фізичною величиною та її числовим значенням у SI.

1 Період
2 Частота
3 Кутова швидкість
4 Доцентрове прискорення

А 12,5
Б 0,16π
В 6,25/π
Г 31,25
Д 2,5

14. Велосипедист рухається рівномірно по коловій трасі, затрачаючи на кожне коло 12 хв. Установіть відповідність між проміжком часу від початку руху та відповідним відношенням модуля переміщення до шляху.

1 2 хв
2 3 хв
3 6 хв
4 12 хв

А $2/\pi$
Б $2\sqrt{2}/\pi$
В $3/\pi$
Г 0
Д $\sqrt{2}/\pi$

15. (ЗНО-2011). Машина рухається прямолінійно зі швидкістю υ. Установіть відповідність між модулями миттєвих швидкостей точок колеса машини відносно землі та буквами, якими позначено відповідні точки на рисунку. Кут $\alpha = 30^\circ$. Колесо не проковзує.

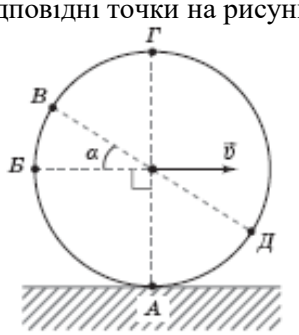

1 0
2 υ
3 2υ
4 $\sqrt{3}\,\upsilon$

ІІІ Рівень. Завдання відкритої форми

1. Із двох міст назустріч один одному виїхали одночасно два автомобілі. Рухаючись зі швидкостями по 60 км/год, вони через 20 хв зустрілися посередині між містами. Визначити відстань між містами. (40 км).

2. Людина, що йде вниз ескалатором, який опускається, витрачає на спуск 1 хв. Якщо людина йтиме удвічі швидше, то вона витратить на 15 с менше. Скільки часу людина спускається, стоячи на ескалаторі? (90 с).

3. Два потяги рухаються назустріч один одному зі швидкостями 72 і 54 км/год. Пасажир першого потяга, помічає, що другий потяг проходить повз нього протягом 14 с. Яка довжина другого потяга? (490 м).

4. Рухи двох велосипедистів задано такими рівняннями: $x = 5t$, $x = 150\text{-}10t$. Побудуйте графіки залежності $x(t)$. Знайдіть час та місце зустрічі графічно й аналітично. (10 с; 50 м).

5. Швидкість потяга протягом 10 с збільшилась з 10 м/с до 15 м/с, далі протягом 18 с він рухався рівномірно. Побудуйте графік швидкості. Визначте пройдений шлях і середню швидкість на всьому шляху. (395 м; 14,1 м/с).

6. Відстань між містами 360 км. Автомобіль проїхав перші 120 км за 2 год, а решту шляху – зі швидкістю 80 км/год. Визначте середню швидкість автомобіля. (72 км/год).

7. Тіло почало рухатися зі швидкістю 1 м/с і через деякий час мало швидкість 5 м/с. Визначте переміщення, яке здійснило тіло, якщо відомо, що прискорення руху дорівнює 0,5 м/с. Побудуйте графіки залежності переміщення та швидкості від часу. (24 м).

8. (Пробне ЗНО-2009). Визначте, який шлях пройшло тіло за 10 с під час рівноприскореного руху, якщо його початкова швидкість становить 20 м/с, а прискорення, що дорівнює за модулем 5 м/с^2, напрямлене протилежно до початкової швидкості. Відповідь запишіть у метрах. (130 м).

9. Тіло падає з висоти 2000 м. За який час воно пройде перші 100 м і останні 100 м? (4,5 с; 0,5 с).

10. Який шлях пролетить камінець, що вільно падає, за восьму секунду падіння? (75 м).

11. Тіло кинуто вертикально вгору зі швидкістю 40 м/с. Визначте швидкість тіла через 2с та максимальну висоту піднімання. (20 м/с; 80 м).

12. Хлопчик кинув горизонтально м'яч із вікна, яке розміщене на висоті 20 м. Скільки часу летів м'яч до землі, та з якою швидкістю його кинули, якщо він упав на відстані 6 м від фундаменту будинку? (2 с; 3 м/с).

13. Тіло, кинуте під кутом до горизонту, перебувало в польоті 4 с. Якої найбільшої висоти воно досягло? (20 м).

14. Камінь кинули під кутом 30˚ до горизонту зі швидкістю 10 м/с. Через який час камінь буде на висоті 1 м? (0,276 с; 0,724 с).

15. Камінь кинуто з гори горизонтально з початковою швидкістю 15 м/с. Через який час його швидкість буде напрямлена під кутом 45˚ до горизонту? (1,5 с).

16. Снаряд вилетів з гармати зі швидкістю 600 м/с під кутом 45˚ до горизонту. Визначте дальність польоту снаряда. Опором повітря знехтувати. (36 км).

17. Тіло кинуто з початковою швидкістю 20 м/с під кутом 30˚ до горизонту. Нехтуючи опором повітря, визначте його положення через 1 с і через 2 с після початку руху. ($x_1 = 10\sqrt{3}$ м, $y_1 = 5$ м; $x_2 = 20\sqrt{3}$ м, $y_2 = 0$).

18. На якій відстані від криголама слід скинути з вертольота повідомлення про стан льоду, якщо вертоліт летить назустріч криголаму на висоті 25 м? Швидкості вертольота і криголама дорівнюють 25 м/с і 7,2 км/год відповідно. ($27\sqrt{5}$ м).

19. Лінійна швидкість точок, розміщених на ободі маховика, дорівнює 5 м/с, а точок, що лежать ближче до осі на 20 см – 4 м/с. Визначте радіус маховика і його кутову швидкість. (1 м; 5 рад/с).

20. Частинка на ободі довгограючої пластинки рухається з лінійною швидкістю 1,25 м/с. Визначте діаметр грампластинки та доцентрове прискорення частинок на ободі, якщо грампластинка робить 156 обертів за 2 хв. (0,3 м; 10,4 м/с^2).

2. ОСНОВИ ДИНАМІКИ. ЗАКОНИ ЗБЕРЕЖЕННЯ В МЕХАНІЦІ

Мета. Опанування слухачами підготовчого відділення наукових фактів і фундаментальних ідей, усвідомлення ними суті понять і законів, принципів і теорій, які дають змогу пояснити перебіг фізичних явищ і процесів, з'ясувати їх закономірності, характеризувати сучасну фізичну картину світу. Відпрацювання навичок виконання завдань різної форми та різного ступеня складності для якісної підготовки слухачів підготовчого відділення до проходження зовнішнього незалежного оцінювання відповідно до вимог Українського центру оцінювання якості освіти.

Знати:

- закони динаміки Ньютона;
- закон всесвітнього тяжіння, закон Гука;
- умови рівноваги тіла;
- закон збереження імпульсу;
- закон збереження енергії.

Уміти:

- формулювати закони динаміки Ньютона, закон всесвітнього тяжіння, закон Гука, умови рівноваги тіла для поступального й обертального рухів, закон збереження імпульсу, закон збереження енергії, записувати їх рівняння;
- характеризувати універсальність законів Ньютона, порівнювати різні методи вимірювання сил;
- ураховувати залежність ваги тіла від руху опори чи підвісу, визначати конкретні умови рівноваги тіла під дією кількох сил,
- розв'язувати задачі, застосовуючи закони динаміки, всесвітнього тяжіння, для опису окремих прикладів руху тіл та їх взаємодії, систематизувати знання про закони динаміки та межі їхнього застосування;
- уміти записувати рівняння руху тіла під дією кількох сил у векторній і скалярній формі;
- подавати результати вивчення умов рівноваги тіла та застосування законів руху для розв'язування навчальних фізичних задач за допомогою таблиць, графіків, формул.

Рекомендована література

1. *Кузнєцова О. Я.* Фізика : навч. посіб. / О. Я. Кузнєцова, Н. П. Муранова. – К. : Видав-во Нац. авіа. ун-ту «НАУ-друк», 2008. – Ч. 1. – 2008. – С. 100-215. – (МОН України).

2. *Кузнєцова О. Я.* Фізика. Теорія і практика : навч. посіб. / О. Я. Кузнєцова, Н. П. Муранова. – К. : Книжкове вид-во НАУ, 2007. – 316 с.

Питання для теоретичного опрацювання:

1. Механічна взаємодія тіл. Сила. Види сил у механіці. Додавання сил.
2. Закони динаміки. Перший закон Ньютона.
3. Інерціальні системи відліку. Інерція та інертність. Маса тіла.
4. Другий закон Ньютона. Третій закон Ньютона.
5. Гравітаційна взаємодія. Закон всесвітнього тяжіння. Гравітаційна стала.
6. Сила тяжіння. Вага і невагомість.
7. Рух тіла, кинутого вертикально вгору.
8. Рух тіла, кинутого горизонтально.
9. Рух тіла, кинутого під кутом до горизонту.

10. Штучні супутники Землі. Перша космічна швидкість.
11. Деформація тіл. Сила пружності. Механічна напруга. Закон Гука. Модуль Юнга.
12. Сили тертя. Коефіцієнт тертя ковзання.
13. Рух тіла під дією кількох сил.
14. Маса та імпульс тіла.
15. Закон збереження імпульсу.
16. Механічна енергія. Закон збереження енергії.
17. Механічна робота та потужність.
18. Коефіцієнт корисної дії простих механізмів.
19. Тиск. Закон Паскаля для рідин та газів
20. Сполучені посудини. Гідравлічний прес. Атмосферний тиск.
21. Тиск нерухомої рідини на дно і стінки посудини.
22. Архімедова сила. Умови плавання тіл.
23. Підіймальна сила літака.

Вступні і пробні завдання

1. Яка фізична величина характеризує інертність тіла?

А об'єм; **Б** густина; **В** маса; **Г** сила.

2. Відомо, що за умови компенсації усіх сил, які діють на автомобіль, швидкість його руху зберігається. Як називається це явище?

А тяжіння; **Б** інерція; **В** невагомість; **Г** тертя.

3. Якщо модуль прикладеної до тіла сили змінюється, то тіло…

А рухається з постійним прискоренням;
Б перебуває в спокої;
В рухається з постійною швидкістю;
Г рухається зі змінним прискоренням.

4. За рівномірного руху по колу кут між рівнодійною сил та лінійною швидкістю дорівнює:

А 0°; **Б** 90°; **В** 180°; **Г** 45°.

5. (Пробне ЗНО-2009). З яким із названих тіл можна зв'язати початок координат інерціальної системи відліку?

А автомобіль, що розганяється;
Б потяг, що виконує поворот;
В яблуко, що вільно падає на землю;
Г шайба, що без тертя прямолінійно ковзає по льоду.

6. (ЗНО-2012). Яка з характеристик руху обов'язково залишається незмінною під час переходу від однієї інерціальної системи відліку до іншої?

А швидкість; **Б** напрям руху; **В** прискорення; **Г** переміщення.

7. Від якої фізичної величини не залежить прискорення вільного падіння?

А від маси планети;
Б від маси тіла;
В від радіуса планети;
Г від висоти над поверхнею планети.

8. Як зміниться прискорення вільного падіння, якщо Землю буде сплюснуто у 2 рази?

А збільшиться у 2 рази;
Б зменшиться у 2 рази;
В збільшиться у 4 рази;
Г зменшиться у 4 рази.

9. Визначте, як змінилася сила гравітаційної взаємодії між космічним кораблем і Сонцем, якщо відстань від космічного корабля до Сонця зросла утричі.
А зменшилася у 9 разів;
Б зменшилася у 6 разів;
В зменшилася у 3 рази;
Г зменшилася у $\sqrt{3}$ разів.

10. Пружину, що має довжину l і жорсткість *k*, розрізали на 4 однакові частини. Чому дорівнює коефіцієнт жорсткості кожної з нових пружин?
А 16 *k*; **Б** 4 *k*; **В** $\frac{k}{4}$; **Г** $\frac{k}{2}$.

11. У якій з описаних ситуацій вага людини в ліфті найменша?
А ліфт рушає вгору;
Б ліфт рівномірно рухається вгору;
В ліфт рівномірно рухається вниз;
Г ліфт гальмує на верхньому поверсі.

12. Чому не зрівноважують одна одну сили, які виникають унаслідок взаємодії тіл?
А бо прикладені до різних тіл;
Б іноді зрівноважують;
В бо їх рівнодійна не дорівнює нулю;
Г бо їх рівнодійна дорівнює нулю.

13. Два вантажі, маси яких *m* і 2*m,* зв'язані ниткою, починають вільно падати. Сила натягу нитки при цьому:
А 3*mg;* **Б** 2*mg*; **В** *mg*; **Г** 0.

14. (ЗНО-2011).На рисунку зображено графік залежності проекції швидкості υ_x матеріальної точки,яка рухається вздовж осі О*x*, від часу *t*. Укажіть ділянку графіка, на якій проекція на вісь О*x* рівнодійної усіх сил, прикладених до цієї точки, дорівнює нулю.

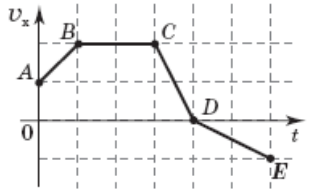

А AB; **Б** BC; **В** CD; **Г** DE.

15. **У** якому випадку на тіло діє сила тертя спокою?
А ящик лежить на нерухомій горизонтальній поверхні;
Б ящик лежить на похилій площині;
В санки гальмують;
Г люстру підвішено до стелі.

16. Момент сили – це…
А відстань від осі обертання до лінії дії сили ;
Б добуток сили на час її дії;
В добуток сили на її плече;
Г час дії сили.

17. Фізична величина, що характеризує швидкість виконання механічної роботи, називається…
А імпульсом; **Б** потужністю; **В** енергією; **Г** силою.

18. Укажіть, у якому випадку сила тяжіння не виконує механічної роботи.

А камінь піднімається вертикально вгору;
Б брусок сповзає по похилій площині;
В м'яч, кинутий під кутом до горизонту, рухається по параболі;
Г супутник Землі рухається по коловій орбіті.

19. Автомобіль, що рухається горизонтальною дорогою, здійснює екстрене гальмування. Укажіть, які перетворення енергії при цьому відбуваються.
А потенціальна енергія перетворюється в кінетичну;
Б кінетична енергія перетворюється в потенціальну;
В потенціальна енергія перетворюється у внутрішню;
Г кінетична енергія перетворюється у внутрішню.

20. Яке з цих тверджень не може бути віднесене до пружного удару?
А до і після удару тіла рухаються вздовж однієї прямої;
Б тіла рівної маси обмінюються швидкостями;
В сумарний імпульс тіл не змінюється після їхньої взаємодії;
Г після співударяння тіла рухаються як єдине ціле.

21. Визначте яка з фізичних величин є векторною.
А робота; **Б** потужність; **В** імпульс тіла; **Г** кінетична енергія.

22. Робота буде дорівнювати нулю, якщо кут між векторами сили та переміщення дорівнює:
А 0°; **Б** 90°; **В** 180°; **Г** 30°.

23. Коли у системі тіл діють сили тяжіння, пружності та тертя, то повна механічна енергія…
А залишається сталою;
Б зменшується;
В збільшується;
Г не залежить від сили тяжіння та тертя.

24. Коефіцієнт корисної дії показує:
А роботу, яку виконав механізм;
Б частину втраченої енергії;
В частину загальної енергії, яка пішла на виконання корисної роботи;
Г відношення загальної роботи до корисної роботи.

25. Як зміниться кінетична енергія тіла, якщо його швидкість зменшиться у 2 рази?
А збільшиться у 2 рази;
Б зменшиться у 2 рази;
В збільшиться у 4 рази;
Г зменшиться у 4 рази.

26. Укажіть фізичну величину, одиниця якої визначається через основні одиниці SI, як кг $м^2с^{-3}$.
А робота сили; **Б** потужність; **В** момент сили; **Г** імпульс сили.

27. Тіло кинуто під кутом до горизонту. У якій точці траєкторії сума кінетичної і потенціальної енергії буде мінімальною? Опором повітря знехтувати.
А у верхній; **Б** у кінцевій; **В** однакова у всіх точках; **Г** у початковій.

Завдання для самостійного розв'язання І рівня.

У завданнях із чотирьох запропонованих відповідей вибрати одну правильну. Тренувальні вправи сприяють формуванню навичок розв'язування задач, умінню застосування знань у нестандартних ситуаціях.

1. (Пробне ЗНО-2013). Визначте модуль рівнодійної всіх сил, що діють на автомобіль масою 800 кг, рівняння руху якого $x = 1 + 3t + 2t^2$.
А 6400 Н; **Б** 3200 Н; **В** 2100 Н; **Г** 800 Н.

2. Тіло масою 2 кг рухається вздовж осі О*x* під дією постійної сили 8 Н Визначте формулу, яка може описувати залежність координати *x* тіла від часу *t*. Значення всіх величин у формулах наведено в SI.

А $x = 2 + 8t + 4t^2$; **Б** $x = 8 + 2t + 2t^2$; **В** $x = 8 + 3t - 2t^2$; **Г** $x = 1 + 3t - 4t^2$.

3. Автомобіль масою 500 кг, що перебуває в стані спокою, розганяється і за 5 с досягає швидкості 10 м/с. Визначте рівнодійну всіх сил, що діють на автомобіль під час розгону.

А 0,5 кН; **Б** 1 кН; **В** 2 кН; **Г** 4 кН.

4. Визначте прискорення вільного падіння на поверхні планети масою $3{,}2 \cdot 10^{24}$ кг і радіусом 4000 км. Гравітаційна стала дорівнює $6{,}7 \cdot 10^{-11} \frac{Н \cdot м^2}{кг^2}$.

А 6,7 м/с^2; **Б** 0,67 м/с^2; **В** 13,4 м/с^2; **Г** 1,34 м/с^2.

5. Обчисліть абсолютне подовження троса з коефіцієнтом жорсткості 200 кН/м під час буксирування автомобіля масою 2 т з прискоренням 0,5 м/с^2 .

А 5 см; **Б** 5 мм; **В** 2 см; **Г** 2 мм.

6. Для розтягнення пружини на 2 см необхідно прикласти силу в 4 Н. Яку силу необхідно прикласти, щоб розтягнути на 1 см дві такі пружини, з’єднані паралельно?

А 1 Н; **Б** 2 Н; **В** 8 Н; **Г** 4 Н.

7. (Пробне ЗНО-2009). Трактор масою 8 т рухається по мосту зі швидкістю 36 км/год. Визначте силу тиску трактора на середину мосту, якщо міст опуклий і має радіус 200 м. Вважайте, що g = 10 м/с^2.

А 84 кН; **Б** 80 кН; **В** 76 кН; **Г** 72 кН.

8. Який радіус кривизни опуклого мосту, якщо велосипедист, їдучи зі швидкістю 54 км/год, не чинить тиск на міст на його середині?

А 22,5 м; **Б** 292 м; **В** 540 м; **Г** 270 м.

9. Вантаж масою 2 кг, підвішений на динамометрі у ліфті. Який показник зафіксує динамометр, якщо ліфт рухається з прискоренням 1,8 м/с^2 угору рівносповільнено? (g = 9,8 м/с^2)

А 16 Н; **Б** 2 Н; **В** 3,6 Н; **Г** 13,2 Н.

10. Ракета підіймається вертикально вгору. Модуль її прискорення дорівнює 5g. Визначте вагу тіла масою m, яке міститься в ракеті.

А mg; **Б** 4 mg; **В** 5 mg; **Г** 6 mg.

11. На столі лежить дерев'яний брусок, маса якого 500 г. Коефіцієнт тертя між бруском і столом становить 0,3. Яка сила тертя буде діяти на брусок, якщо до нього прикласти горизонтальну силу 1 Н?

А 0 Н; **Б** 1 Н; **В** 1,5 Н; **Г** 2 Н.

12. Брусок рівномірно ковзає по похилій площині з кутом нахилу 30°. Визначте коефіцієнт тертя між бруском і площиною.

А $\frac{\sqrt{3}}{3}$; **Б** $\sqrt{3}$; **В** $\frac{\sqrt{3}}{2}$; **Г** $\frac{1}{2}$.

13. З яким прискоренням рухатиметься брусок по похилій площині з кутом нахилу $30°$, якщо коефіцієнт тертя між бруском і площиною дорівнює 0,2?

А 9,7 м/с^2; **Б** 6,7 м/с^2; **В** 7,7 м/с^2; **Г** 3,3 м/с^2.

14. Велосипедист рухається зі швидкістю 6 м/с. Який шлях він подолає після того, як припинить крутити педалі? Коефіцієнт тертя 0,06.

А 30 м; Б 40 м; **В** 36 м; **Г** 5 м.

15. Тролейбус масою 10 т рушає з місця з прискоренням 1 м/с^2 .Визначте коефіцієнт тертя, якщо сила тяги дорівнює 14 кН.

А 0,05; Б 0,5; **В** 0,04; **Г** 0,4.

16. Система складається з нерухомого блока, через який перекинуто нитку, до кінців якої прив'язано квадратні шматки жерсті. Шматки виготовлені з однакового матеріалу та мають однакову товщину. Сторона одного шматка у два рази більша, ніж сторона другого. З яким прискоренням рухатиметься система? Уважайте, що прискорення вільного падіння дорівнює 10 м/с^2. Тертям знехтуйте.

А 2 м/с^2; **Б** 4 м/с^2; **В** 8 м/с^2; **Г** 6 м/с^2.

17. Визначте масу одного призматичного тягарця, якщо смугастий циліндричний вантаж має загальну масу 250 г.



А 300 г; **Б** 200 г; **В** 100 г; **Г** 50 г.

18. Товщина крижини дорівнює 40 см, а її площа – 8 м^2. Визначте максимальну масу вантажу, з яким крижина може плавати в озері так, щоб вантаж залишався над поверхнею води. Густина льоду становить 900 кг/м^3, а густина води дорівнює 1000 кг/м^3.

А 3200 кг; **Б** 2900 кг; **В** 1600 кг; **Г** 320 кг.

19. Повітряну кулю об'ємом 200 м^3 наповнено теплим повітрям. Куля з підвішеним до неї вантажем плаває на невеликій висоті над землею, де густина зовнішнього повітря дорівнює 1,3 кг/м^3. Загальна маса оболонки кулі та вантажу, що підвішений до кулі, становить 100 кг. Визначте густину повітря всередині кулі.

А 1,25 кг/м^3; **Б** 0,8 кг/м^3; **В** 0,5 кг/м^3; **Г** 0,05 кг/м^3.

20. Швидкість криголама масою 1000 т, який рівномірно рухався із вимкненим двигуном, становила 6 м/с. Після зіткнення з нерухомою крижиною криголам продовжив прямолінійний рівномірний рух разом з нею. Маса крижини становить 500 т. Яка швидкість сумісного руху обох тіл? Тертям між водою і криголамом знехтуйте.

А 4 м/с; **Б** 3 м/с; **В** 0,4 м/с; **Г** 0,04 м/с.

21. Швидкість тіла масою 0,8 кг, що рухається вздовж осі *Ox*, змінюється відповідно до рівняння $v_x = 0{,}05\sin(10\pi t)$, де всі величини виражено в одиницях SI. Визначте імпульс тіла через 0,2 с після початку відліку часу.

А 0,04 кг·м/с; **Б** 0,002 кг·м/с; **В** 0,001 кг·м/с; **Г** 0 кг·м/с.

22. Тіло масою 200 г кидають вертикально вгору з початковою швидкістю 50 м/с. Знайдіть потенціальну енергію тіла в кінці другої секунди.

А 160 Дж; **Б** 20 Дж; **В** 240 Дж; **Г** 100 Дж.

23. (ЗНО-2016). Тіло кинули вертикально вгору. Який із наведених графіків відображає залежність кінетичної енергії E_k тіла від часу *t*? Опір повітря не враховуйте.

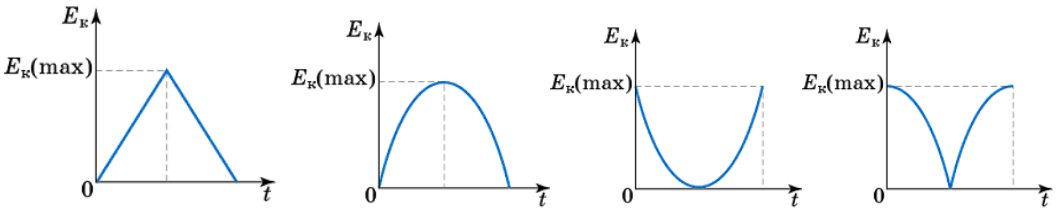

А **Б** **В** **Г**

24. Легковий автомобіль масою 1,2 т, який рухався прямолінійно зі швидкістю 36 км/год, через 20 с зупиняється під дією сил опору. Чому дорівнює середня потужність сил опору?

А 6 кВт; Б 4 кВт; В 5 кВт; Г 3 кВт.

25. Яку роботу виконує людина, повільно піднімаючи на 60 см під водою камінь масою 50 кг і об'ємом 0,02 м^3?

А 360 Дж; **Б** 300 Дж; **В** 180 Дж; **Г** 120Дж.

26. Визначте тиск води на дно акваріума шириною 20 см, довжиною 40 см, висотою 50 см, наповненого водою. Густина води 1000 кг/м^3.

А 25 кПа; **Б** 20 кПа; В 15 кПа; **Г** 5 кПа.

27. Визначте ККД похилої площини довжиною 3 м і висотою 90 см, якщо для рівномірного підіймання по ній вантажу масою 80 кг прикладають у напрямку руху силу 480 Н. Уважайте, що g = 10 м/с^2.

А 80 %; **Б** 60 %; **В** 50 %; **Г** 70 %.

28. Визначте ККД нерухомого блока, якщо для рівномірного підіймання вантажу масою 36 кг прикладають силу 400 Н. Уважайте, що g = 10 м/с^2.

А 90 %; **Б** 36 %; **В** 57 %; **Г** 40 %.

29. Визначте ККД рухомого блока, якщо для рівномірного підіймання вантажу масою 36 кг прикладають силу 225 Н. Уважайте, що g = 10 м/с^2.

А 90 %; **Б** 85 %; **В** 75 %; **Г** 80 %.

30. (ЗНО-2011). За допомогою системи блоків рівномірно піднімають вантаж m = 4 кг, прикладаючи силу F = 25 Н (див. рисунок). Вважайте, що g = 10 м/с^2. Коефіцієнт корисної дії такого механізму дорівнює…

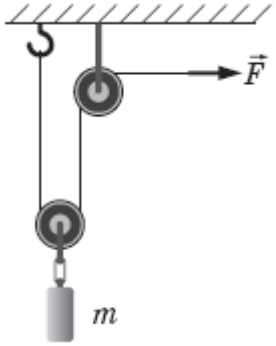

А 80 %; **Б** 60 %; **В** 62,5 %; **Г** 75 %.

31. Людина масою 80 кг, стоячи на легкому надувному плоту, відштовхується від нерухомого човна масою 120 кг. При цьому човен набуває швидкості 0,6 м/с. Якої швидкості набуває пліт?

А 0,3 м/с; **Б** 0,4 м/с; **В** 0,9 м/с; **Г** 1,2 м/с.

32. Куля масою 50 г, яка рухається зі швидкістю 5 м/с, налітає на нерухому кулю масою 200 г. Яку швидкість матиме тіло, що утворилось після абсолютно непружного удару?

А 0,5 м/с; **Б** 2,5 м/с; **В** 1 м/с; **Г** 1,2м/с.

33. Визначте кінетичну енергію космічного корабля масою 200 кг, який рухається зі швидкістю 120 км/хв.

А 40 кДж; **Б** 4 МДж; **В** 24 кДж; **Г** 400 МДж.

ІІ рівень. Завдання на встановлення відповідності

1. М’яч кинули під кутом до горизонту. Ураховуючи силу опору повітря, установіть відповідність між фізичною величиною та характером її зміни

1	Висота	**А**	Не змінюється
2	Модуль вертикальної складової швидкості	**Б**	Спочатку збільшується, потім зменшується
3	Модуль горизонтальної складової швидкості	**В**	Спочатку зменшується, потім збільшується
4	Сила тяжіння	**Г**	Постійно збільшується
		Д	Постійно зменшується

2. Установіть відповідність між визначенням і поняттям або явищем.

1	Властивість тіла зберігати швидкість	Рівновага
2	Стан тіла, в якому відсутні переміщення будь-яких точок	Інертність
3	Відсутність ваги тіла	Сила
4	Міра інертності тіла	Невагомість
		Маса

3. (ЗНО-2013). Установіть відповідність між рухом тіла та напрямком прискорення

	Рух тіла		**Напрямок прискорення**
1	Падіння яблука з дерева в безвітряну погоду	**А**	Протилежно до напрямку швидкості руху тіла
2	Рух м'яча, який летить угору під кутом до горизонту	**Б**	Під тупим кутом до напрямку швидкості руху тіла
3	Гальмування автомобіля без зміни напрямку руху	**В**	У напрямку швидкості руху тіла
4	Рух штучного супутника Землі по коловій орбіті	**Г**	Під гострим кутом до напрямку швидкості руху тіла
		Д	Під прямим кутом до напрямку швидкості руху тіла

4. Установіть відповідність між рухом тіла та силою, яка надає тілу прискорення

1	Автомобіль рухається з місця	**А**	Сила тертя кочення
2	Падіння яблука з дерева в безвітряну погоду	**Б**	Сила пружності
3	Тенісний м’яч відбивається від стінки	**В**	Гравітаційна сила
4	Шайба ковзає льодовим майданчиком	**Г**	Сила тертя спокою
		Д	Сила тертя ковзання

5. Тіло масою 2 кг рухалось вздовж осі *Ox* під дією постійної сили так, що його координата із часом змінювалася в SI за законом $x = 2 + 4t - 0{,}5t^2$. Установіть відповідність між фізичною величиною та її числовим значенням у SI.

1	Сила, що діє на тіло	**А**	5
2	Імпульс точки через 2 с	**Б**	- 2
3	Імпульс сили через 5 с	**В**	-10
4	Прискорення тіла	**Г**	4
		Д	-1

6. Яблуко масою 200 г вільно падає з висоти 6 м. Установіть відповідність між фізичною величиною та її числовим значенням у SI.

1	$E_к$-через 1 с після початку падіння	**А**	3
2	$E_п$ через 1 с після початку падіння	**Б**	12
3	Повна механічна енергія	**В**	10
4	Висота, на якій $E_к = E_п$	**Г**	6
		Д	2

7. Установіть відповідність між назвами одиниць та фізичними величинами, для яких вони призначені:

1	Тиск	**А**	кг·м/с^2
2	Імпульс	**Б**	кг/м с^2
3	Енергія	**В**	кг·м/с
4	Сила	**Г**	кг·м^2/с^2
		Д	кг/м·с

8. Установіть відповідність між винаходом та прізвищем ученого, що зробив це відкриття:

1	Залежність атмосферного тиску від висоти	**А**	Ньютон
2	Незалежність прискорення вільного падіння від маси тіла	**Б**	Галілей
3	Вимірювання атмосферного тиску	**В**	Паскаль
4	Закон гравітаційної взаємодії	**Г**	Джоуль
		Д	Торрічеллі

9. Установіть відповідність між фізичним приладом та його призначенням:

1	Вимірювання тиску рідин та газів	**А**	Ареометр
2	Вимірювання атмосферного тиску	**Б**	Сполучені посудини
3	Перевірка горизонтальності поверхні	**В**	Альтиметр
4	Вимірювання висоти над поверхнею землі	**Г**	Барометр
		Д	Манометр

10. Швидкість тіла масою 1 кг, кинутого вертикально вгору,змінюється за законом: $v_x = 30 - 10t$. За нульовий рівень потенціальної енергії вважайте точку кидання. Установіть відповідність між моментом часу і значенням енергій.

1	$t = 0$	**А**	$E_к = 0$; $E_п = 450$ Дж
2	$t = 1$ с	**Б**	$E_к = 50$ Дж; $E_п = 400$ Дж
3	$t = 3$ с	**В**	$E_к = 200$ Дж; $E_п = 250$ Дж
4	$t = 4$ с	**Г**	$E_к = 12{,}5$ Дж; $E_п = 437{,}5$ Дж
		Д	$E_к = 450$Дж; $E_п = 0$ Дж

11. Тіло масою 2 кг рухалось вздовж осі *Ox* під дією постійної сили так, що його координата із часом змінювалася в SI за законом $x = -2 + 4t + 0{,}5t^2$.Установіть відповідність між фізичною величиною та її числовим значенням у SI.

1	Сила, що діє на тіло	**А**	4
2	Робота сили за перші 2 с руху	**Б**	12
3	Потужність у момент часу 2 с	**В**	20
4	Середня потужність за перші 2 с руху	**Г**	2
		Д	10

12. Жорсткість дротини дорівнює *k*. Установіть відповідність між змінами, що відбуваються з дротиною та жорсткістю тіла після змін.

1	Дротину вкоротили навпіл	**А**	$4k$
2	Дротину склали вдвоє	**Б**	$2k$
3	Збільшили довжину дротини вдвічі	**В**	k
4	До дротини приєднали послідовно таку саму дротину	**Г**	$k/2$
		Д	$k/4$

13. Установіть відповідність між процесом і збереженням фізичних величин: імпульсу, кінетичної, потенціальної та механічної енергій.

1	Реактивний рух космічного корабля	**А**	Зберігаються імпульс і кінетична енергія
2	Пружне зіткнення двох куль	**Б**	Зберігається тільки імпульс
3	Гальмування автомобіля по горизонтальній дорозі	**В**	Зберігається тільки механічна енергія
4	Рух штучного супутника Землі по еліптичній орбіті	**Г**	Зберігається тільки потенціальна енергія
		Д	Зберігаються потенціальна та кінетична енергія

14. Установіть відповідність між назвами одиниць та фізичними величинами, для вимірювання яких вони призначені.

1	Імпульс	**А**	1 Н
2	Тиск	**Б**	кг ·м⁄с
3	Енергія	**В**	1 Дж
4	Сила	**Г**	1 Па
		Д	1 Вт

15. Акваріум, що має довжину 80 см, ширину 30 см і висоту 50 см, по вінця заповнений водою, густина якої 1000 кг/м^3.Установіть відповідність між фізичною величиною та її числовим значенням у SI:

1	Сила тиску води на на дно акваріума	**А**	375 Н

2	Сила тиску води на бічну стінку	**Б**	2750 Н
3	Сила тиску води на передню стінку	**В**	1500 Н
4	Сила тиску води на бічну поверхню	**Г**	1000 Н
		Д	1200 Н

16. Висота стовпа води в склянці дорівнює *h*. Для кожної з описаних ситуацій визначте тиск стовпа рідини на дно склянки.

1	Склянка рівномірно піднімається вгору	**А**	ρgh
2	Склянка рухається з прискоренням $g/2$, напрямленим угору	**Б**	0
3	Склянка рухається з прискоренням $g/2$, напрямленим униз	**В**	$1{,}5\,\rho gh$
4	Склянка з водою вільно падає	**Г**	$0{,}5\,\rho gh$
		Д	$2\,\rho gh$

17. Куб з ребром *a* міститься у воді так, що висота стовпа рідини над верхньою гранню дорівнює *2a*. Установіть відповідність між фізичною величиною та виразом, за яким її можна обчислити

1	Сила тиску рідини на верхню грань куба	**А**	ρga^3
2	Сила тиску рідини на бічну грань куба	**Б**	$3\,\rho ga^3$
3	Сила тиску рідини на нижню грань куба	**В**	$2{,}5\,\rho ga^3$
4	Сила Архімеда	**Г**	$1{,}5\,\rho ga^3$
		Д	$2\,\rho ga^3$

III рівень. Завдання відкритої форми

Творчі завдання сприяють формуванню навичок здобутих отриманих знань у реальних життєвих ситуаціях.

1. На ділянці шляху 400 м швидкість автобуса збільшилася від 15 до 25 м/с. Визначте середню силу тяги двигуна, якщо маса автобуса 10 т, а сила опору рухові 1 кН. (7,56 кН).

2. До кінців нитки, перекинутої через нерухомий блок, підвішені тягарі масою 1 кг і 6 кг. Чому дорівнює вага кожного з них під час руху. (17,16 Н; 17,14 Н).

3. На мотузці довжиною 5 м, що прикріплена до стелі, висить куля масою 10 кг. Її відводять убік від вертикалі на 2 м.. Визначте силу натягу мотузки. (109 Н).

4. Тіло зісковзує без початкової швидкості з похилої площини. Кут нахилу до горизонту 30°, а коефіцієнт тертя тіла об площину 0,3. Яке прискорення тіла? (2,4 м/с^2).

5. (ЗНО-2016). Два супутники рухаються навколо планети по колових орбітах. Радіус орбіти першого супутника в 4 рази менший від радіуса орбіти другого. (2; 16).

1. У скільки разів прискорення руху першого супутника більше за прискорення руху другого?
2. У скільки разів швидкість руху першого супутника більша за швидкість руху другого?

6. (ЗНО-2011). Маса планети Z удвічі більша за масу Землі, а її діаметр удвічі менший від діаметра Землі. Визначте співвідношення періодів обертання $T_z / T_ç$ штучних супутників планет Z і Земля, що рухаються по колових орбітах на невеликій висоті. (0,25).

7. Для рівномірного піднімання вантажу масою 100 кг по похилій площині, що утворює з горизонтом кут 30°, треба прикласти силу 600 Н. З яким прискоренням рухатиметься вантаж униз, якщо його відпустити? (4 м/с^2).

8. Дві однакові пластилінові кульки підвішено на нерозтяжних, невагомих нитках однакової довжини L, які закріплено в одній точці. Одну з кульок відхилили на кут 90° від вертикалі і відпустили. На яку висоту піднімуться кульки після непружної взаємодії? Розміром кульок знехтуйте. (L/4).

9. (ЗНО-2016). Край дошки підняли на 1,5 м над підлогою. Яку найменшу швидкість необхідно надати невеликому тілу в нижній точці дошки, щоб воно, ковзаючи по ній, змогло досягти верхньої точки? Довжина дошки 2,5 м, коефіцієнт тертя ковзання 0,15, прискорення вільного падіння 10 м/с^2. Опором повітря знехтуйте. Відповідь запишіть у метрах за секунду (м/с). (6 м/с).

10. Тіло масою 2 кг ковзає вниз по площині, нахиленій під кутом 45° до горизонту. Висота площини 50 см, коефіцієнт тертя ковзання — 0,2. На скільки зросте внутрішня енергія (Дж) тіла і похилої площини при зісковзуванні тіла від верхньої точки площини до її основи? Уважайте, що прискорення вільного падіння дорівнює 10 м/с^2. (2 Дж).

11. Куля масою 10 г, що летить зі швидкістю 800 м/с, влучаєє в дерево і заглиблюється в нього на 10 см. Визначте силу опору дерева та час руху кулі в ньому. (32 кН; 0,25 мс).

12. Дві непружні кулі масами 0,6 і 0,4 кг, що рухаються зі швидкостями 5 і 10 м/с, напрямленими під кутом 90° одна до одної, зіткнулися і потім рухалися як одне ціле. Визначте швидкість, імпульс і напрямок руху куль після зіткнення. (5 м/с; 5 кг·м/с; arcos 3/5).

13. Тіло кинуто вертикально вгору зі швидкістю 50 м/с. Визначте швидкість тіла через 4 с та максимальну висоту піднімання. (10 м/с; 125 м).

14. Розігнавшись до швидкості 27 км/год, ковзаняр хоче виїхати на льодяну гірку. На яку висоту від початкового рівня він виїде з розгону, якщо підйом гори становить 1 м на кожні 20 м, а коефіцієнт тертя ковзанів об лід 0,02? (2 м).

15. Двигун насоса, розвиваючи потужність 25 кВт, піднімає 109 $м^3$ нафти на висоту 6 м за 8 хв. Густина нафти 800 $кг/м^3$. Визначте ККД установки. (43,6 %).

16. У тіло масою 990 г, що лежить на горизонтальній поверхні, влучає куля масою 10 г і застряє в ньому. Швидкість кулі напрямлена горизонтально і дорівнює 700 м/с. Який шлях пройде тіло до зупинення, якщо коефіцієнт тертя між тілом і поверхнею 0,05? (49 м).

17. Вагон масою 12 т рухався зі швидкістю 1 м/с. Наскочивши на пружинний буфер, він зупинився, стиснувши пружину буфера на 10 см. Визначте жорсткість пружини. (1,2 МН/м).

18. Визначте потужність сільської ГЕС, якщо на лопаті турбіни з висоти 4 м щохвилини падає 180 $м^3$ води, ККД турбіни дорівнює 90 %. (108 кВт).

19. Людина масою 70 кг перейшла з носа човна на корму. Маса човна 140 кг і довжина 3 м. На скільки змістився при цьому човен? (1 м).

20. Літак для зльоту повинен мати швидкість 25 м/с і довжину пробігу 100 м. Яка сила тяги та потужність двигунів під час зльоту, якщо маса літака 1 т, а коефіцієнт опору 0,02? (3325 Н; 83125 Вт).

21. Визначте силу, необхідну для утримання пластира, який закриває пробоїну площею 300 см^2 у підводному човні на глибині 3 м. Густина морської води 1030 кг/м^3. (927 Н).

22. Визначте густину однорідного тіла, яке діє на нерухому опору в повітрі з силою P_0 = 2,8 Н, а у воді – з силою $P_в$ = 1,69 Н. Виштовхувальною силою повітря знехтувати. (2523 кг/м^3).

23. Тіло, маса якого дорівнює 990 г, лежить на горизонтальній поверхні. У нього влучає куля масою 10 г і застрягає в ньому. Швидкість кулі напрямлена горизонтально. Визначте (м/с) початкову швидкість кулі, якщо після її влучання в тіло, воно починає рухатися зі швидкістю 6 м/с. Тертям між тілом та поверхнею можна знехтувати. (600 м/с).

24. Ліфт масою 600 кг починає підніматися вгору зі сталим прискоренням 1,4 м/с^2. Знайти роботу сили тяги під час підняття на висоту 10 м, а також потужність на цій висоті. (6840 Н; 36184 Вт).

25. Стиснута на 10 см пружина іграшкового пістолета має жорсткість 0,2 кН/м. Із пістолета вистрелюють кулькою масою 20 г. Якої початкової швидкості набула кулька? (10 м/с).

26. (ЗНО-2013). Повітряну кулю заповнено газом, густина якого в 6 разів менша за густину повітря. У скільки разів збільшиться допустима маса вантажу, який може підняти куля, якщо газ у ній підігріли, унаслідок чого його густина зменшилася ще вдвічі? Вагою оболонки кулі знехтуйте. (1,1).

27. Сталевий лом довжиною 1 м, маса якого 8 кг, лежить на горизонтальному ящику, виступаючи за його край зліва на 20 см. Яку мінімальну силу слід прикласти до правого кінця лома, щоб його підняти? (30 Н).

28. На ділянці шляху 400 м швидкість автобуса збільшилася з 54 км/год до 90 км/год. Визначте силу тяги двигуна, якщо маса автобуса 10 т, а сила опору руху 1 кН. Визначте роботу сили тяги на цьому шляху. (6 Кн; 2,4 МДж).

29. Мармурова плита має масу 40,5 кг. Яку силу потрібно прикласти, щоб утримати її у воді? Густина води 1000 кг/м^3, густина мармуру 2700 кг/м^3. (255 Н).

30. (ЗНО-2011). Школяр масою 50 кг, стоячи на гладенькому льоду, кидає ядро масою 5 кг під кутом 60° до горизонту зі швидкістю 8 м/с. Якої швидкості набуває школяр? (0,4 м/с).

31. Прямокутна коробочка масою m = 76 г площею дна S = 38см^2 та висотою H = 6 см плаває у воді. Визначте висоту надводної частини коробочки. (4 см).

32. (ЗНО-2009).У мішку з піском масою 1 кг, що висить на легкому підвісі завдовжки 10 м, застряє куля масою 10 г, яка летіла горизонтально зі швидкістю 1010 м/с. Визначте кут, на який відхилиться підвіс від вертикалі. Вважайте, що g = 10 м/с^2. (60°).

33. Хлопчик на санчатах спускається з вершини льодяної гори (точки A) і, проїхавши після спуску 40 м горизонтальною ділянкою BC, зупиняється в точці C (див. рисунок). Маса хлопчика разом із санчатами становить 60 кг. Визначте висоту гори H (у метрах), якщо на ділянці AB силою опору руху можна знехтувати, а на горизонтальній ділянці BC сила опору руху дорівнює 60 Н. Вважайте, що g = 10 м/с^2.

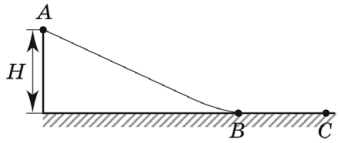

Список літератури

1. *Засєкіна Т. М.* Фізика. 10 клас (профільний рівень) : [підруч.] / Т. М. Засєкіна, М. В. Головко. – К. : Педагогічна думка, 2010. – 304 с.
2. *Сиротюк В. Д.* Фізика. 10 клас : [підруч.] / В. Д. Сиротюк, В. І. Баштовий. – К. : Освіта, 2010. – 304 с.
3. *Сиротюк В. Д.* Фізика. 11 клас : [підруч.] / В. Д. Сиротюк, В. І. Баштовий. – К. : СИЦИЯ, 2011. – 306 с.
4. *Засєкіна Т. М.* Фізика. 11 клас. Академічний рівень, профільний рівень : [підруч.] / Т. М. Засєкіна, Д. О. Засєкін. – Х. : СИЦИЯ, 2012. – 338 с.
5. Фізика. 11 клас : [підруч.] / В. Г. Бар'яхтяр, Ф. Я. Божинова, О. О. Кирюхіна, М. М. Кирюхін. – К. : Ранок, 2012. – 320 с.
6. *Козлова Т. В.* Збірник завдань для самостійної роботи / Т. В. Козлова, Н. П. Муранова, О. С. Муранов – К. : Вид-во НАУ, 2011. – 144 с.
7. *Кузнєцова О. Я.* Фізика. Задачник із розв'язаннями / О. Я. Кузнєцова, В. М. Кулішенко, Б. О. Малов – К. : Книжкове вид-во НАУ, 2005. – 219 с.
8. *Кузнєцова О. Я.* Фізика : [навч. посіб.] / О. Я. Кузнєцова, Н. П. Муранова. – К. : Вид-во Нац. авіац. ун-ту «НАУ-друк», 2008. – Ч. 1. – 2008. – 328 с. – (МОН України).
9. *Кузнєцова О. Я.* Фізика : [навч. посіб.] / О. Я. Кузнєцова, Н. П. Муранова. – К. : Видав-во Нац. авіа. ун-ту «НАУ-друк», 2008. – . – Ч. 2. – 2008. – 292 с. – (МОН України).
10. *Кузнєцова О. Я.* Фізика. Теорія і практика : [навч. посіб.] / О. Я. Кузнєцова, Н. П. Муранова. – К. : Книжкове вид-во НАУ, 2007. – 316 с.
11. *Струж Н.* Фізика. Збірник тестових завдань для підготовки до зовнішнього незалежного оцінювання / Н.І.Струж, С.І. Остап'юк, О.Я.Сенишин О.Я. – Тернопіль: Підручники і посібники, 2015. – 320 с.
12. *Гельфгат І. М.* Повний курс шкільної фізики в тестах / Гельфгат І.М. . – Х.:Ранок, 2016. – 385 с.
13. УЦОЯО. Тестовий зошит з фізики. ЗНО–2010. – 19 с.
14. УЦОЯО. Тестовий зошит з фізики. ЗНО–2011. – 19 с.
15. УЦОЯО. Тестовий зошит з фізики. ЗНО–2012. – 19 с.
16. УЦОЯО. Тестовий зошит з фізики. ЗНО–2013. – 19 с.
17. УЦОЯО. Тестовий зошит з фізики. ЗНО–2014. – 19 с.
18. УЦОЯО. Тестовий зошит з фізики. ЗНО–2015. – 19 с.
19. УЦОЯО. Тестовий зошит з фізики. ЗНО–2016. – 19 с.